Написание задач на умножение (визуальное) Имя:

Перепишите каждую матрицу в виде умножения и решите.

об)

1)

2)

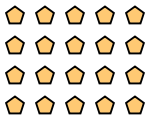

3)

4)



5)

6)

7)

8)

9)

10)

11)

Ответы

об. **5 × 8 = 40**

1. _____

2. _____

3. _____

4. _____

5. _____

6. _____

7. _____

8. _____

9. _____

10. _____

11. _____

1-10	91	82	73	64	55	45	36	27	18	9
11	0									

Написание задач на умножение (визуальное) Имя: **Ключ к правильным ответам**

Перепишите каждую матрицу в виде умножения и решите.

об)

1)

2)

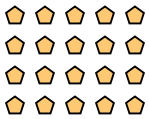

3)

4)



5)

6)

7)

8)

9)

10)

11)

Ответы

об. 5 × 8 = 40

1. 10 × 5 = 50

2. 4 × 5 = 20

3. 2 × 8 = 16

4. 3 × 9 = 27

5. 7 × 2 = 14

6. 4 × 4 = 16

7. 2 × 2 = 4

8. 8 × 2 = 16

9. 7 × 3 = 21

10. 4 × 2 = 8

11. 10 × 2 = 20

1-10	91	82	73	64	55	45	36	27	18	9
11	0									