Отрицательное положение на числовой прямой Имя:

Решите каждую задачу.

1) Какая буква отражает значение -29

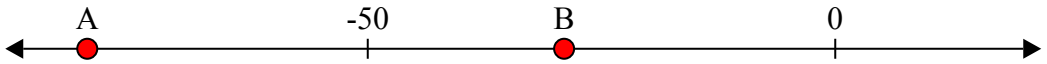

2) Какая буква отражает значение -120



3) Какая буква отражает значение -118



4) Какая буква отражает значение -14



5) Какая буква отражает значение -109



6) Какая буква отражает значение -28



7) Какая буква отражает значение -21



8) Какая буква отражает значение -14



9) Какая буква отражает значение -13



10) Какая буква отражает значение -114



Ответы

1. _____
2. _____
3. _____
4. _____
5. _____
6. _____
7. _____
8. _____
9. _____
10. _____

1-10	90	80	70	60	50	40	30	20	10	0

Решите каждую задачу.

1) Какая буква отражает значение -29

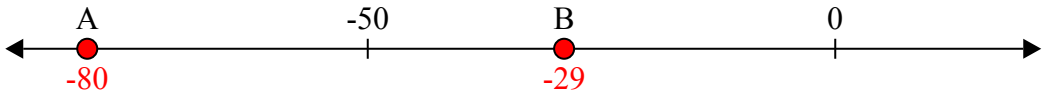

2) Какая буква отражает значение -120

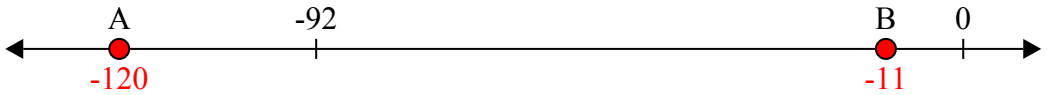

3) Какая буква отражает значение -118

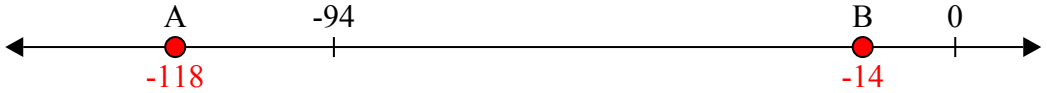

4) Какая буква отражает значение -14

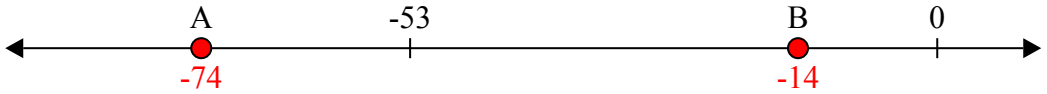

5) Какая буква отражает значение -109

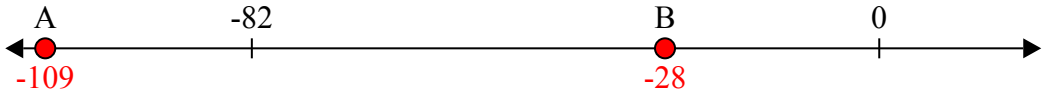

6) Какая буква отражает значение -28

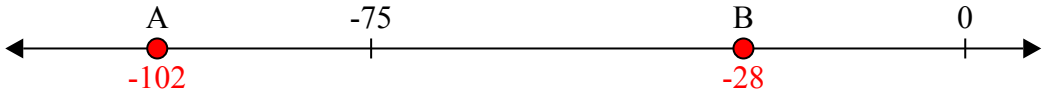

7) Какая буква отражает значение -21

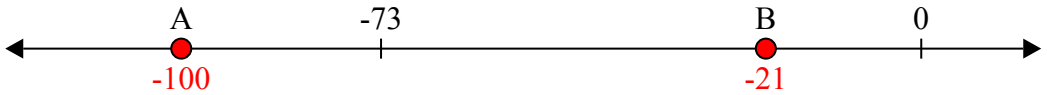

8) Какая буква отражает значение -14

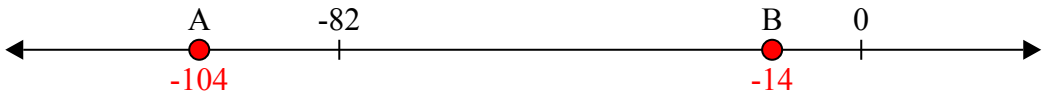

9) Какая буква отражает значение -13

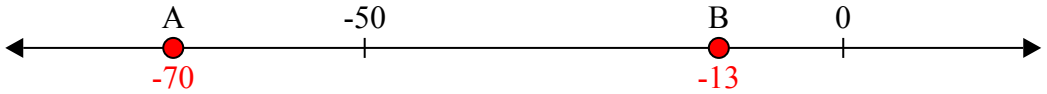

10) Какая буква отражает значение -114

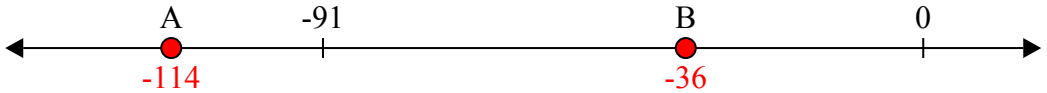

Ответы

1. **B**
2. **A**
3. **A**
4. **B**
5. **A**
6. **B**
7. **B**
8. **B**
9. **B**
10. **A**

1-10	90	80	70	60	50	40	30	20	10	0