Визуальный вес разряда (в пределах 20) Имя:

Заполните пропуски.

об)

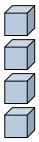

0 4

десятками единицами

1)

десятками единицами

2)

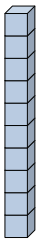

десятками единицами

3)

десятками единицами

4)

десятками единицами

5)

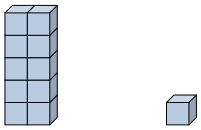

десятками единицами

6)

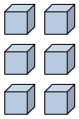

десятками единицами

7)

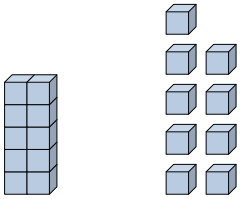

десятками единицами

8)

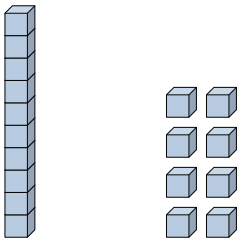

десятками единицами

9)

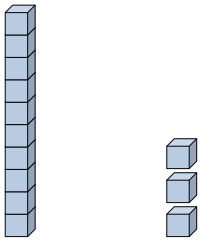

десятками единицами

10)

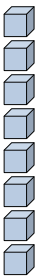

десятками единицами

11)

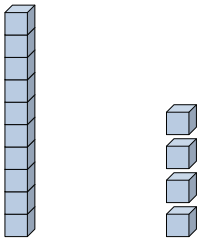

десятками единицами

Ответы

об. 4

1. _____

2. _____

3. _____

4. _____

5. _____

6. _____

7. _____

8. _____

9. _____

10. _____

11. _____

1-10	91	82	73	64	55	45	36	27	18	9
11	0									

Визуальный вес разряда (в пределах 20) Имя: Ключ к правильным ответам

Заполните пропуски.

об)

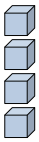

0 десятками 4 единицами

1)

0 десятками 5 единицами

2)

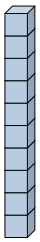

1 десятками 0 единицами

3)

0 десятками 9 единицами

4)

0 десятками 2 единицами

5)

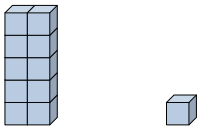

1 десятками 1 единицами

6)

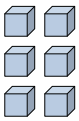

0 десятками 6 единицами

7)

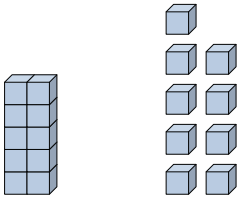

1 десятками 9 единицами

8)

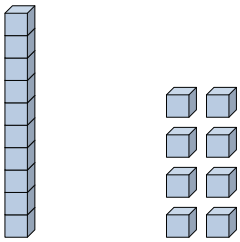

1 десятками 8 единицами

9)

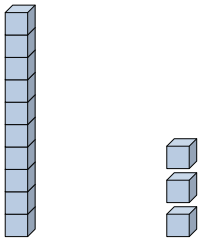

1 десятками 3 единицами

10)

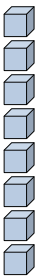

0 десятками 8 единицами

11)

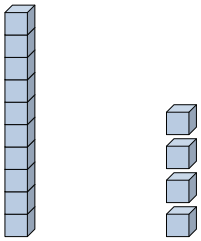

1 десятками 4 единицами

Ответы

об.	4
1.	5
2.	10
3.	9
4.	2
5.	11
6.	6
7.	19
8.	18
9.	13
10.	8
11.	14

1-10	91	82	73	64	55	45	36	27	18	9
11	0									

Визуальный вес разряда (в пределах 20) Имя:

Заполните пропуски.

об)

0 4

десятками единицами

1)

десятками единицами

2)

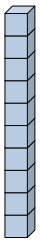

десятками единицами

3)

десятками единицами

4)

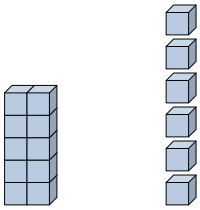

десятками единицами

5)

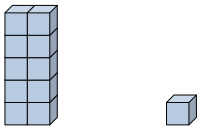

десятками единицами

6)

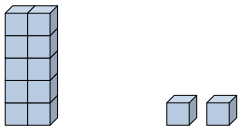

десятками единицами

7)

десятками единицами

8)

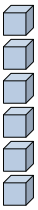

десятками единицами

9)

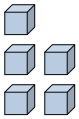

десятками единицами

10)

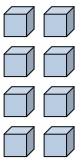

десятками единицами

11)

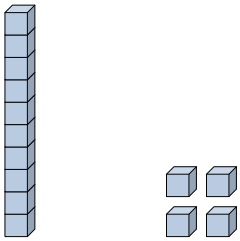

десятками единицами

Ответы

об. 4

1. _____

2. _____

3. _____

4. _____

5. _____

6. _____

7. _____

8. _____

9. _____

10. _____

11. _____

1-10	91	82	73	64	55	45	36	27	18	9
11	0									

Визуальный вес разряда (в пределах 20) Имя: Ключ к правильным ответам

Заполните пропуски.

об)

0 десятками 4 единицами

1)

0 десятками 2 единицами

2)

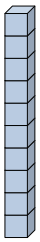

1 десятками 0 единицами

3)

0 десятками 3 единицами

4)

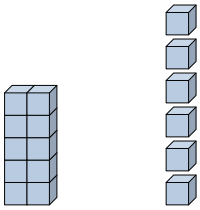

1 десятками 6 единицами

5)

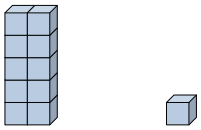

1 десятками 1 единицами

6)

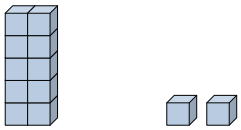

1 десятками 2 единицами

7)

0 десятками 7 единицами

8)

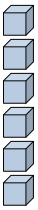

0 десятками 6 единицами

9)

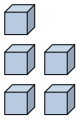

0 десятками 5 единицами

10)

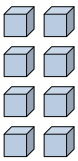

0 десятками 8 единицами

11)

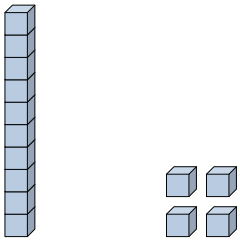

1 десятками 4 единицами

Ответы

об.	4
1.	2
2.	10
3.	3
4.	16
5.	11
6.	12
7.	7
8.	6
9.	5
10.	8
11.	14

1-10	91	82	73	64	55	45	36	27	18	9
11	0									

Визуальный вес разряда (в пределах 20) Имя:

Заполните пропуски.

об)

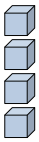

0 десятками 4 единицами

1)

_____ десятками _____ единицами

2)

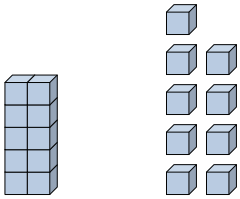

_____ десятками _____ единицами

3)

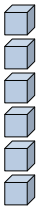

_____ десятками _____ единицами

4)

_____ десятками _____ единицами

5)

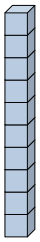

_____ десятками _____ единицами

6)

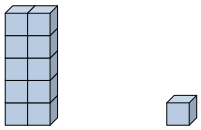

_____ десятками _____ единицами

7)

_____ десятками _____ единицами

8)

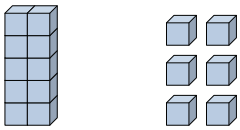

_____ десятками _____ единицами

9)

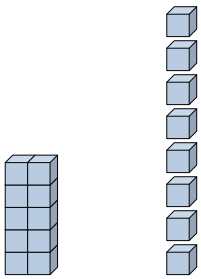

_____ десятками _____ единицами

10)

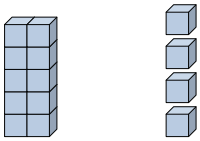

_____ десятками _____ единицами

11)

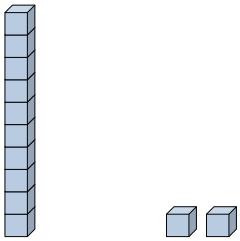

_____ десятками _____ единицами

Ответы

об. 4

1. _____
2. _____
3. _____
4. _____
5. _____
6. _____
7. _____
8. _____
9. _____
10. _____
11. _____

1-10	91	82	73	64	55	45	36	27	18	9
11	0									

Визуальный вес разряда (в пределах 20) Имя: Ключ к правильным ответам

Заполните пропуски.

об)

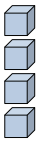

0 десятками 4 единицами

1)

0 десятками 2 единицами

2)

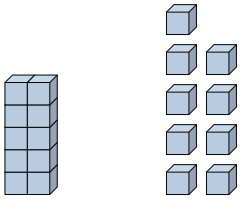

1 десятками 9 единицами

3)

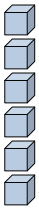

0 десятками 6 единицами

4)

0 десятками 7 единицами

5)

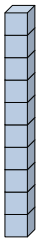

1 десятками 0 единицами

6)

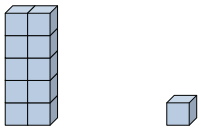

1 десятками 1 единицами

7)

0 десятками 1 единицами

8)

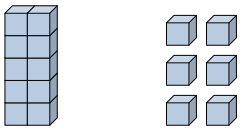

1 десятками 6 единицами

9)

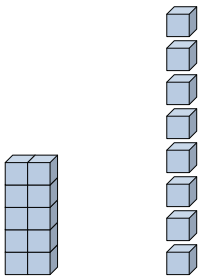

1 десятками 8 единицами

10)

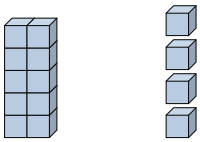

1 десятками 4 единицами

11)

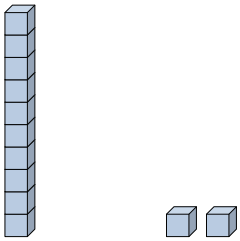

1 десятками 2 единицами

Ответы

об.	4
1.	2
2.	19
3.	6
4.	7
5.	10
6.	11
7.	1
8.	16
9.	18
10.	14
11.	12

1-10	91	82	73	64	55	45	36	27	18	9
11	0									

Визуальный вес разряда (в пределах 20) Имя:

Заполните пропуски.

об)

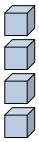

0 десятками 4 единицами

1)

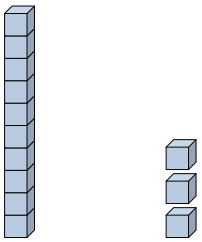

____ десятками ____ единицами

2)

____ десятками ____ единицами

3)

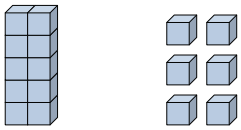

____ десятками ____ единицами

4)

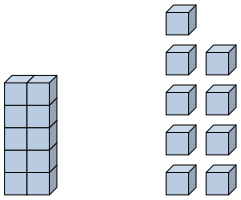

____ десятками ____ единицами

5)

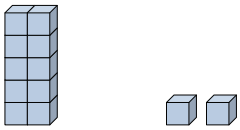

____ десятками ____ единицами

6)

____ десятками ____ единицами

7)

____ десятками ____ единицами

8)

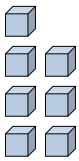

____ десятками ____ единицами

9)

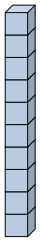

____ десятками ____ единицами

10)

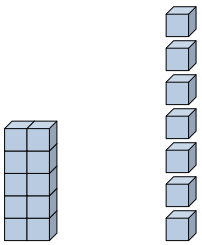

____ десятками ____ единицами

11)

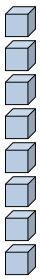

____ десятками ____ единицами

Ответы

об. 4

1. ____
2. ____
3. ____
4. ____
5. ____
6. ____
7. ____
8. ____
9. ____
10. ____
11. ____

1-10	91	82	73	64	55	45	36	27	18	9
11	0									

Визуальный вес разряда (в пределах 20) Имя: Ключ к правильным ответам

Заполните пропуски.

об)

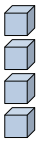

0 десятками 4 единицами

1)

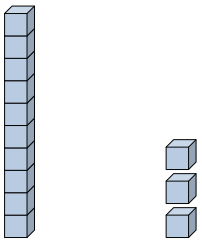

1 десятками 3 единицами

2)

0 десятками 5 единицами

3)

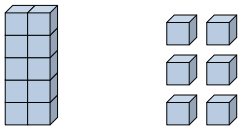

1 десятками 6 единицами

4)

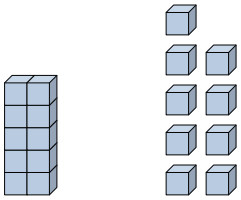

1 десятками 9 единицами

5)

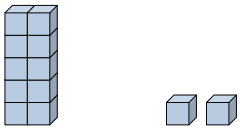

1 десятками 2 единицами

6)

0 десятками 2 единицами

7)

0 десятками 9 единицами

8)

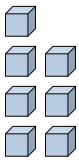

0 десятками 7 единицами

9)

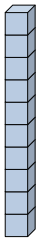

1 десятками 0 единицами

10)

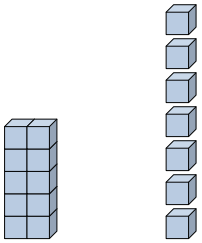

1 десятками 7 единицами

11)

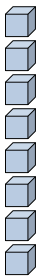

0 десятками 8 единицами

Ответы

об.	4
1.	13
2.	5
3.	16
4.	19
5.	12
6.	2
7.	9
8.	7
9.	10
10.	17
11.	8

1-10	91	82	73	64	55	45	36	27	18	9
11	0									

Визуальный вес разряда (в пределах 20) Имя:

Заполните пропуски.

об)

0 4

десятками единицами

1)

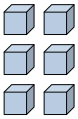

десятками единицами

2)

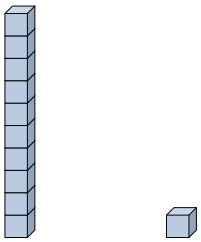

десятками единицами

3)

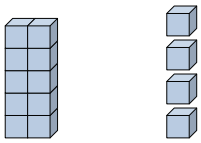

десятками единицами

4)

десятками единицами

5)

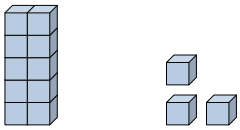

десятками единицами

6)

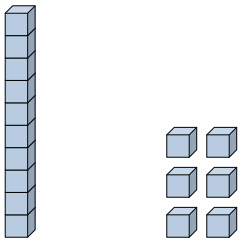

десятками единицами

7)

десятками единицами

8)

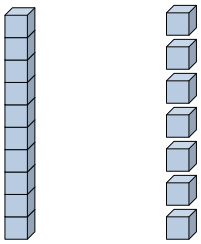

десятками единицами

9)

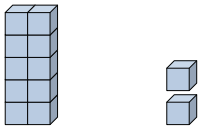

десятками единицами

10)

десятками единицами

11)

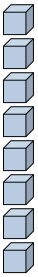

десятками единицами

Ответы

об. 4

1. _____

2. _____

3. _____

4. _____

5. _____

6. _____

7. _____

8. _____

9. _____

10. _____

11. _____

1-10	91	82	73	64	55	45	36	27	18	9
11	0									

Визуальный вес разряда (в пределах 20) Имя: Ключ к правильным ответам

Заполните пропуски.

об)

0 десятками 4 единицами

1)

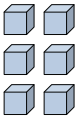

0 десятками 6 единицами

2)

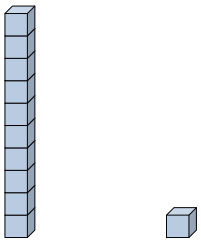

1 десятками 1 единицами

3)

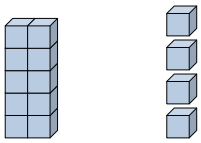

1 десятками 4 единицами

4)

0 десятками 2 единицами

5)

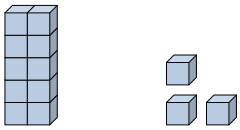

1 десятками 3 единицами

6)

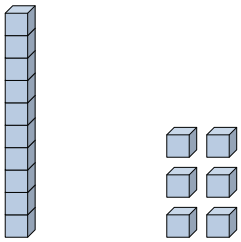

1 десятками 6 единицами

7)

0 десятками 3 единицами

8)

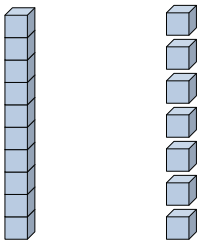

1 десятками 7 единицами

9)

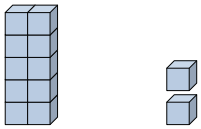

1 десятками 2 единицами

10)

0 десятками 9 единицами

11)

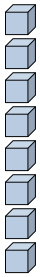

0 десятками 8 единицами

Ответы

об.	4
1.	6
2.	11
3.	14
4.	2
5.	13
6.	16
7.	3
8.	17
9.	12
10.	9
11.	8

1-10	91	82	73	64	55	45	36	27	18	9
11	0									

Визуальный вес разряда (в пределах 20) Имя:

Заполните пропуски.

об)

0 4

десятками единицами

1)

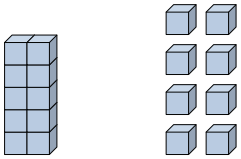

десятками единицами

2)

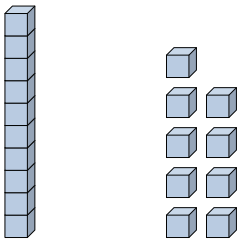

десятками единицами

3)

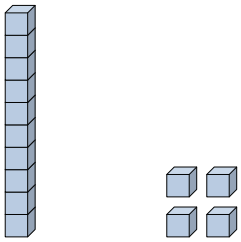

десятками единицами

4)

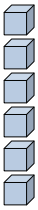

десятками единицами

5)

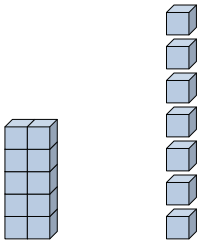

десятками единицами

6)

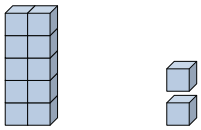

десятками единицами

7)

десятками единицами

8)

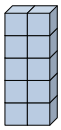

десятками единицами

9)

десятками единицами

10)

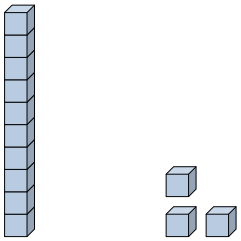

десятками единицами

11)

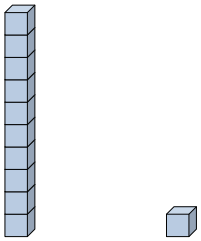

десятками единицами

Ответы

об. 4

1. _____

2. _____

3. _____

4. _____

5. _____

6. _____

7. _____

8. _____

9. _____

10. _____

11. _____

1-10	91	82	73	64	55	45	36	27	18	9
11	0									

Визуальный вес разряда (в пределах 20) Имя: Ключ к правильным ответам

Заполните пропуски.

об)

0 десятками 4 единицами

1)

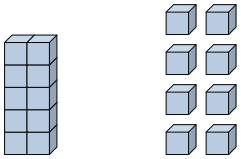

1 десятками 8 единицами

2)

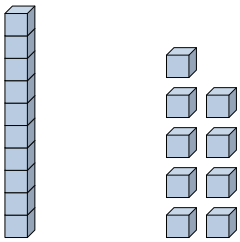

1 десятками 9 единицами

3)

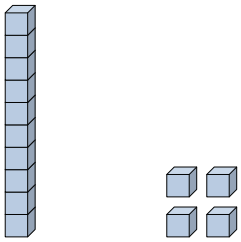

1 десятками 4 единицами

4)

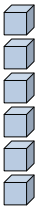

0 десятками 6 единицами

5)

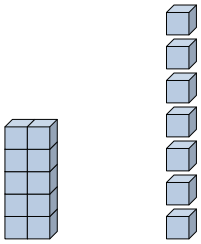

1 десятками 7 единицами

6)

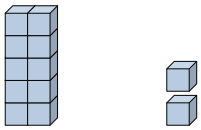

1 десятками 2 единицами

7)

0 десятками 9 единицами

8)

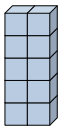

1 десятками 0 единицами

9)

0 десятками 3 единицами

10)

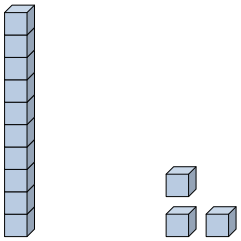

1 десятками 3 единицами

11)

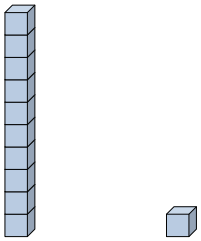

1 десятками 1 единицами

Ответы

об.	4
1.	18
2.	19
3.	14
4.	6
5.	17
6.	12
7.	9
8.	10
9.	3
10.	13
11.	11

1-10	91	82	73	64	55	45	36	27	18	9
11	0									

Визуальный вес разряда (в пределах 20) Имя:

Заполните пропуски.

об)

0 десятками 4 единицами

1)

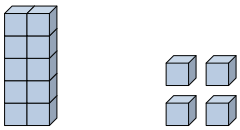

_____ десятками _____ единицами

2)

_____ десятками _____ единицами

3)

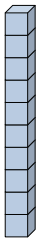

_____ десятками _____ единицами

4)

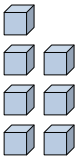

_____ десятками _____ единицами

5)

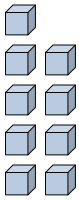

_____ десятками _____ единицами

6)

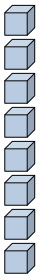

_____ десятками _____ единицами

7)

_____ десятками _____ единицами

8)

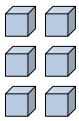

_____ десятками _____ единицами

9)

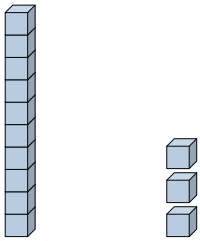

_____ десятками _____ единицами

10)

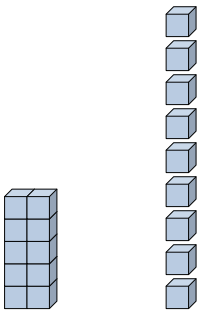

_____ десятками _____ единицами

11)

_____ десятками _____ единицами

Ответы

об. 4

1. _____
2. _____
3. _____
4. _____
5. _____
6. _____
7. _____
8. _____
9. _____
10. _____
11. _____

1-10	91	82	73	64	55	45	36	27	18	9
11	0									

Визуальный вес разряда (в пределах 20) Имя: Ключ к правильным ответам

Заполните пропуски.

об)

0 десятками 4 единицами

1)

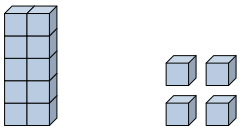

1 десятками 4 единицами

2)

0 десятками 1 единицами

3)

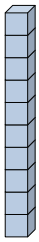

1 десятками 0 единицами

4)

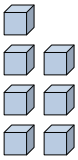

0 десятками 7 единицами

5)

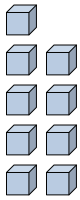

0 десятками 9 единицами

6)

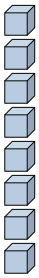

0 десятками 8 единицами

7)

0 десятками 2 единицами

8)

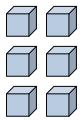

0 десятками 6 единицами

9)

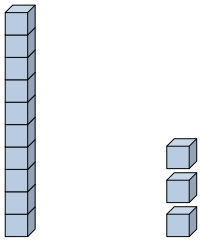

1 десятками 3 единицами

10)

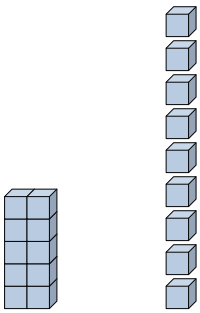

1 десятками 9 единицами

11)

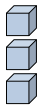

0 десятками 3 единицами

Ответы

об.	4
1.	14
2.	1
3.	10
4.	7
5.	9
6.	8
7.	2
8.	6
9.	13
10.	19
11.	3

1-10	91	82	73	64	55	45	36	27	18	9
11	0									

Визуальный вес разряда (в пределах 20) Имя:

Заполните пропуски.

об)

0 4

десятками единицами

1)

десятками единицами

2)

десятками единицами

3)

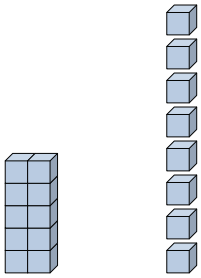

десятками единицами

4)

десятками единицами

5)

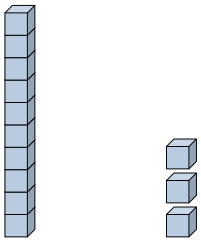

десятками единицами

6)

десятками единицами

7)

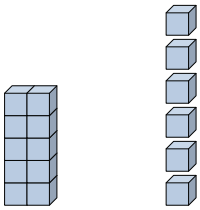

десятками единицами

8)

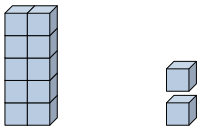

десятками единицами

9)

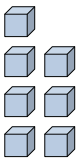

десятками единицами

10)

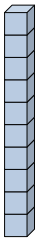

десятками единицами

11)

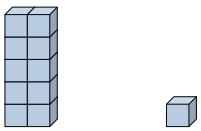

десятками единицами

Ответы

об. 4

1. _____

2. _____

3. _____

4. _____

5. _____

6. _____

7. _____

8. _____

9. _____

10. _____

11. _____

1-10	91	82	73	64	55	45	36	27	18	9
11	0									

Визуальный вес разряда (в пределах 20) Имя: Ключ к правильным ответам

Заполните пропуски.

об)

0 десятками 4 единицами

1)

0 десятками 2 единицами

2)

0 десятками 1 единицами

3)

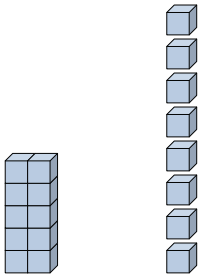

1 десятками 8 единицами

4)

0 десятками 9 единицами

5)

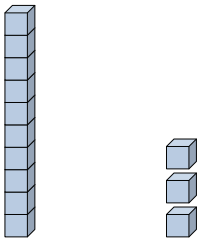

1 десятками 3 единицами

6)

0 десятками 3 единицами

7)

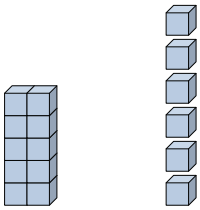

1 десятками 6 единицами

8)

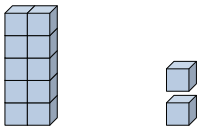

1 десятками 2 единицами

9)

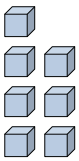

0 десятками 7 единицами

10)

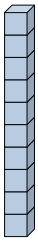

1 десятками 0 единицами

11)

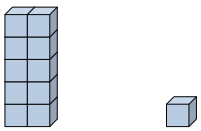

1 десятками 1 единицами

Ответы

об.	4
1.	2
2.	1
3.	18
4.	9
5.	13
6.	3
7.	16
8.	12
9.	7
10.	10
11.	11

1-10	91	82	73	64	55	45	36	27	18	9
11	0									

Визуальный вес разряда (в пределах 20) Имя:

Заполните пропуски.

об)

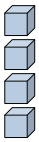

0 4

десятками единицами

1)

десятками единицами

2)

десятками единицами

3)

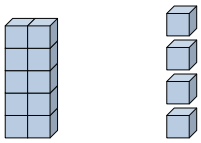

десятками единицами

4)

десятками единицами

5)

десятками единицами

6)

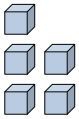

десятками единицами

7)

десятками единицами

8)

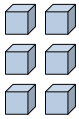

десятками единицами

9)

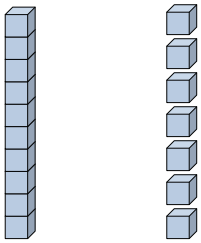

десятками единицами

10)

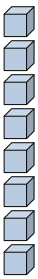

десятками единицами

11)

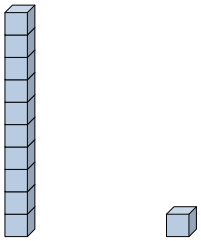

десятками единицами

Ответы

об. 4

1. _____

2. _____

3. _____

4. _____

5. _____

6. _____

7. _____

8. _____

9. _____

10. _____

11. _____

1-10	91	82	73	64	55	45	36	27	18	9
11	0									

Визуальный вес разряда (в пределах 20) Имя: Ключ к правильным ответам

Заполните пропуски.

об)

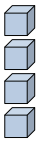

0 десятками 4 единицами

1)

0 десятками 9 единицами

2)

0 десятками 7 единицами

3)

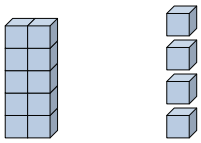

1 десятками 4 единицами

4)

0 десятками 1 единицами

5)

0 десятками 3 единицами

6)

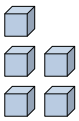

0 десятками 5 единицами

7)

0 десятками 2 единицами

8)

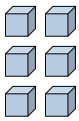

0 десятками 6 единицами

9)

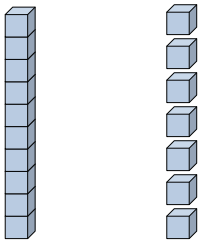

1 десятками 7 единицами

10)

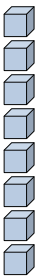

0 десятками 8 единицами

11)

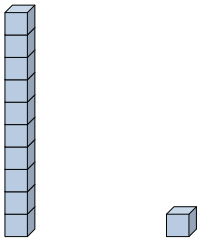

1 десятками 1 единицами

Ответы

об.	4
1.	9
2.	7
3.	14
4.	1
5.	3
6.	5
7.	2
8.	6
9.	17
10.	8
11.	11

1-10	91	82	73	64	55	45	36	27	18	9
11	0									

Визуальный вес разряда (в пределах 20) Имя:

Заполните пропуски.

об)

0 4

десятками единицами

1)

десятками единицами

2)

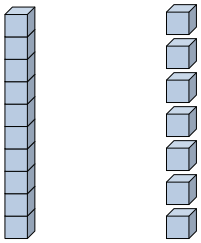

десятками единицами

3)

десятками единицами

4)

десятками единицами

5)

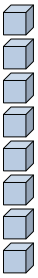

десятками единицами

6)

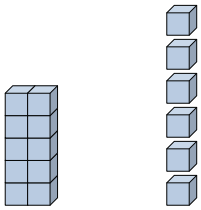

десятками единицами

7)

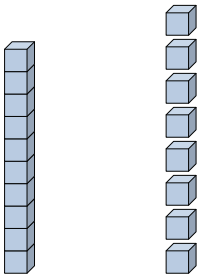

десятками единицами

8)

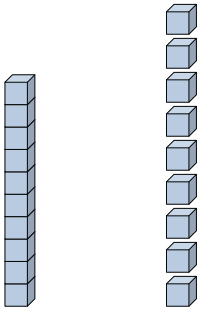

десятками единицами

9)

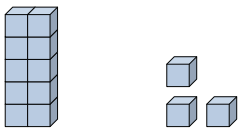

десятками единицами

10)

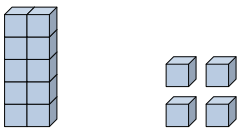

десятками единицами

11)

десятками единицами

Ответы

об. 4

1. _____

2. _____

3. _____

4. _____

5. _____

6. _____

7. _____

8. _____

9. _____

10. _____

11. _____

1-10	91	82	73	64	55	45	36	27	18	9
11	0									

Визуальный вес разряда (в пределах 20) Имя: Ключ к правильным ответам

Заполните пропуски.

об)

0 десятками 4 единицами

1)

0 десятками 9 единицами

2)

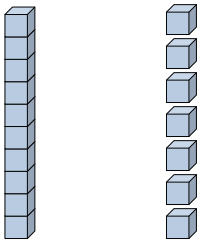

1 десятками 7 единицами

3)

0 десятками 1 единицами

4)

0 десятками 5 единицами

5)

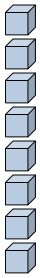

0 десятками 8 единицами

6)

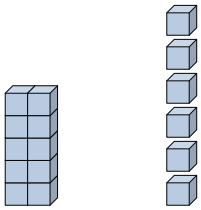

1 десятками 6 единицами

7)

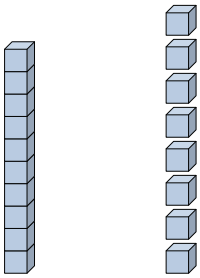

1 десятками 8 единицами

8)

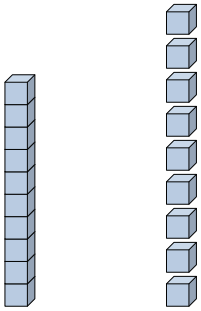

1 десятками 9 единицами

9)

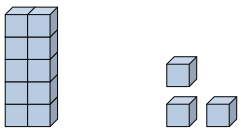

1 десятками 3 единицами

10)

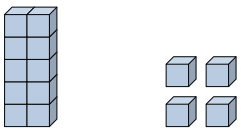

1 десятками 4 единицами

11)

0 десятками 2 единицами

Ответы

об.	4
1.	9
2.	17
3.	1
4.	5
5.	8
6.	16
7.	18
8.	19
9.	13
10.	14
11.	2

1-10	91	82	73	64	55	45	36	27	18	9
11	0									