Деление единиц и дробей (Визуальное) Имя:

Решите задачу, путем обозначения дробей. Первая для Вас обозначена.

об) $4:\frac{1}{5}$ = ? Это то же самое, что: Сколько $\frac{1}{5}$ в 4 целых?

1 целых	1 целых	1 целых	1 целых

1) $3:\frac{1}{3}$ =

1 целых	1 целых	1 целых

2) $5:\frac{1}{5}$ =

1 целых	1 целых	1 целых	1 целых	1 целых

3) $3:\frac{1}{2}$ =

1 целых	1 целых	1 целых

4) $6:\frac{1}{5}$ =

1 целых	1 целых	1 целых	1 целых	1 целых	1 целых

5) $2:\frac{1}{6}$ =

1 целых	1 целых

6) $4:\frac{1}{2}$ =

1 целых	1 целых	1 целых	1 целых

7) $2:\frac{1}{4}$ =

1 целых	1 целых

8) $6:\frac{1}{7}$ =

1 целых	1 целых	1 целых	1 целых	1 целых	1 целых

9) $3:\frac{1}{7}$ =

1 целых	1 целых	1 целых

Ответы

об. 20

1. _____

2. _____

3. _____

4. _____

5. _____

6. _____

7. _____

8. _____

9. _____

1-9	89	78	67	56	44	33	22	11	0

Решите задачу, путем обозначения дробей. Первая для Вас обозначена.

об) $4 : \frac{1}{5} = ?$ Это то же самое, что: Сколько $\frac{1}{5}$ в 4 целых?

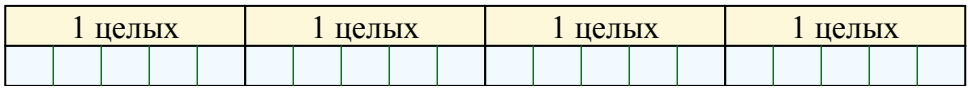

1) $3 : \frac{1}{3} =$ Это то же самое, что: Сколько $\frac{1}{3}$ в 3 целых?

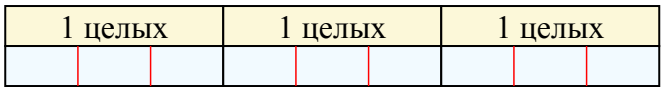

2) $5 : \frac{1}{5} =$ Это то же самое, что: Сколько $\frac{1}{5}$ в 5 целых?

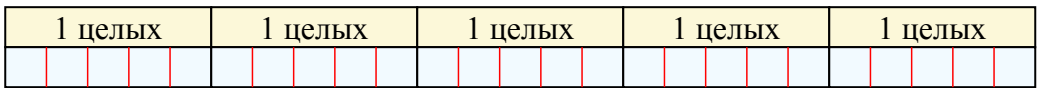

3) $3 : \frac{1}{2} =$ Это то же самое, что: Сколько $\frac{1}{2}$ в 3 целых?

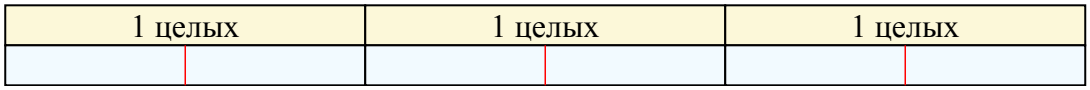

4) $6 : \frac{1}{5} =$ Это то же самое, что: Сколько $\frac{1}{5}$ в 6 целых?

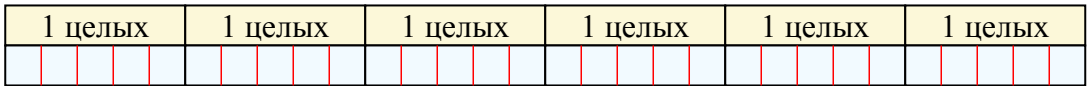

5) $2 : \frac{1}{6} =$ Это то же самое, что: Сколько $\frac{1}{6}$ в 2 целых?

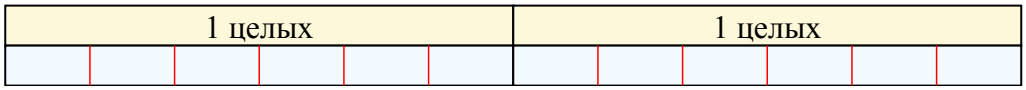

6) $4 : \frac{1}{2} =$ Это то же самое, что: Сколько $\frac{1}{2}$ в 4 целых?

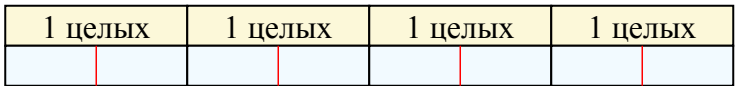

7) $2 : \frac{1}{4} =$ Это то же самое, что: Сколько $\frac{1}{4}$ в 2 целых?

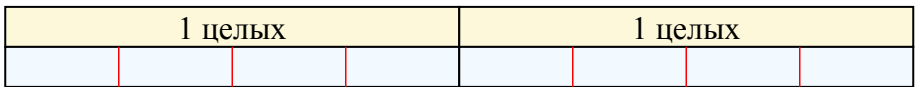

8) $6 : \frac{1}{7} =$ Это то же самое, что: Сколько $\frac{1}{7}$ в 6 целых?

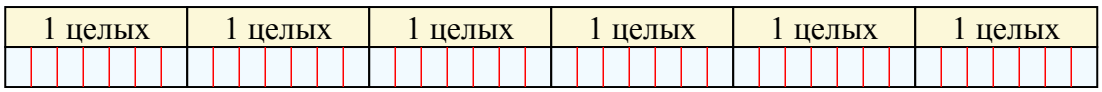

9) $3 : \frac{1}{7} =$ Это то же самое, что: Сколько $\frac{1}{7}$ в 3 целых?

Ответы

об.	20
1.	9
2.	25
3.	6
4.	30
5.	12
6.	8
7.	8
8.	42
9.	21

1-9	89	78	67	56	44	33	22	11	0