Количество дроби относительно целого числа Имя:

Решите каждую задачу.

об) Выразите луны в виде дроби от всего множества.

1) Выразите звезд(ы) в виде дроби от всего множества.

2) Выразите квадратов(та) в виде дроби от всего множества.

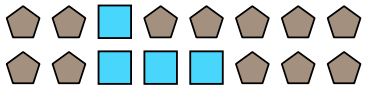

3) Выразите сердца в виде дроби от всего множества.



4) Выразите звезд(ы) в виде дроби от всего множества.



5) Выразите сердца в виде дроби от всего множества.



6) Выразите луны в виде дроби от всего множества.

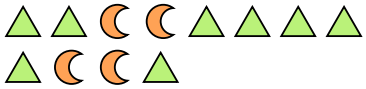

7) Выразите квадратов(та) в виде дроби от всего множества.

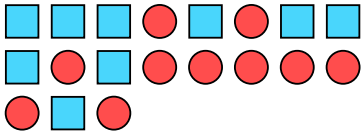

8) Выразите звезд(ы) в виде дроби от всего множества.

9) Выразите треугольников(ка) в виде дроби от всего множества.

10) Выразите кругов(га) в виде дроби от всего множества.

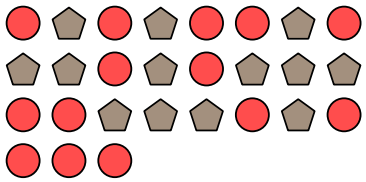

11) Выразите звезд(ы) в виде дроби от всего множества.



Ответы

об. $\frac{15}{22}$

1. _____

2. _____

3. _____

4. _____

5. _____

6. _____

7. _____

8. _____

9. _____

10. _____

11. _____

1-10	91	82	73	64	55	45	36	27	18	9
11	0									

Количество дроби относительно целого числа

Имя: **Ключ к правильным ответам**

Решите каждую задачу.

об) Выразите луны в виде дроби от всего множества.

1) Выразите звезд(ы) в виде дроби от всего множества.

2) Выразите квадратов(та) в виде дроби от всего множества.

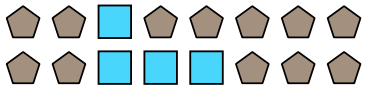

3) Выразите сердца в виде дроби от всего множества.



4) Выразите звезд(ы) в виде дроби от всего множества.



5) Выразите сердца в виде дроби от всего множества.



6) Выразите луны в виде дроби от всего множества.

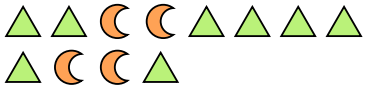

7) Выразите квадратов(та) в виде дроби от всего множества.

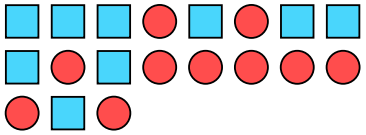

8) Выразите звезд(ы) в виде дроби от всего множества.

9) Выразите треугольников(ка) в виде дроби от всего множества.

10) Выразите кругов(га) в виде дроби от всего множества.

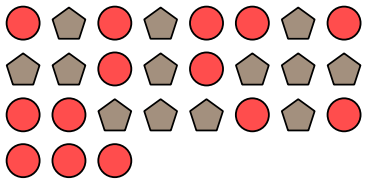

11) Выразите звезд(ы) в виде дроби от всего множества.



Ответы

об.	15/22
1.	3/13
2.	4/16
3.	6/9
4.	2/17
5.	9/19
6.	4/12
7.	9/19
8.	2/10
9.	6/11
10.	14/27
11.	7/17

1-10	91	82	73	64	55	45	36	27	18	9
11	0									