Измерьте каждую фигуру в дюймах и сантиметрах.

об)



1)

2)

3)



4)

Ответы

об.	3	1	7,6	2,5
1.				
2.				
3.				
4.				

1-4	75	50	25	0

Измерьте каждую фигуру в дюймах и сантиметрах.

об)



1)

2)

3)



4)

Ответы

об.	3	1	7,6	2,5
1.	5	0 1/2	12,7	1,3
2.	1 1/2	0 1/2	3,8	1,3
3.	0 1/2	1	1,3	2,5
4.	4 1/2	0 1/2	11,4	1,3

1-4	75	50	25	0