Отрицательное положение на числовой прямой Имя:

Решите каждую задачу.

1) Какая буква отражает значение -27



2) Какая буква отражает значение -16



3) Какая буква отражает значение -18



4) Какая буква отражает значение -15



5) Какая буква отражает значение -91



6) Какая буква отражает значение -75



7) Какая буква отражает значение -81



8) Какая буква отражает значение -10



9) Какая буква отражает значение -59

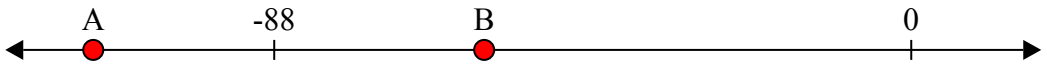

10) Какая буква отражает значение -87



Ответы

1. _____
2. _____
3. _____
4. _____
5. _____
6. _____
7. _____
8. _____
9. _____
10. _____

1-10	90	80	70	60	50	40	30	20	10	0

Отрицательное положение на числовой прямой

Имя: **Ключ к правильным ответам**

Решите каждую задачу.

1) Какая буква отражает значение -27

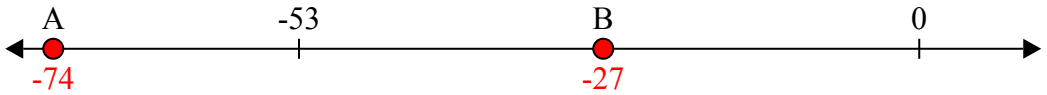

2) Какая буква отражает значение -16

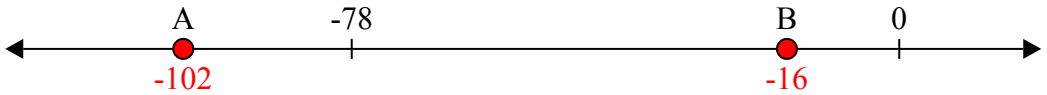

3) Какая буква отражает значение -18

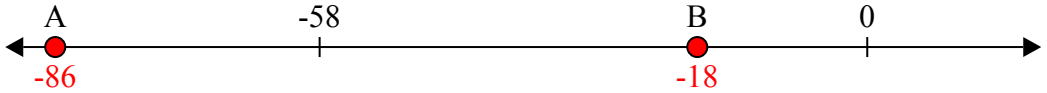

4) Какая буква отражает значение -15

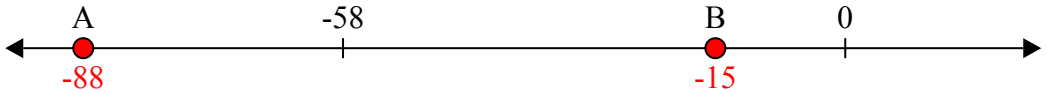

5) Какая буква отражает значение -91

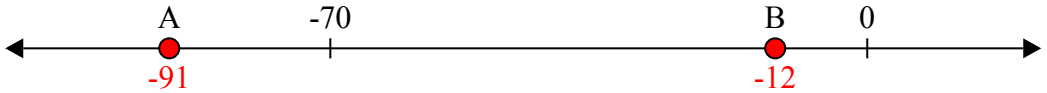

6) Какая буква отражает значение -75

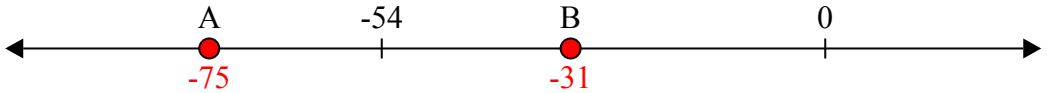

7) Какая буква отражает значение -81

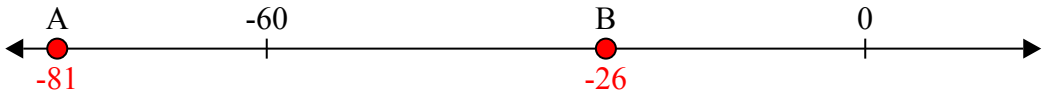

8) Какая буква отражает значение -10

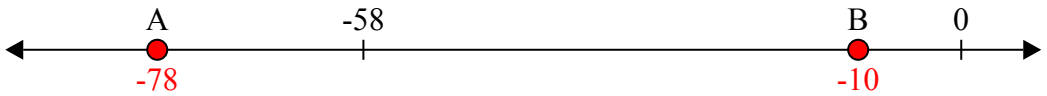

9) Какая буква отражает значение -59

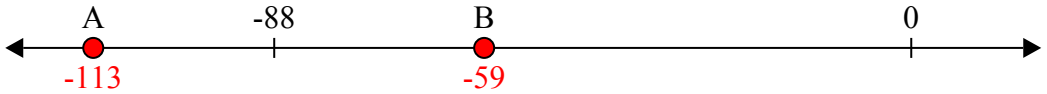

10) Какая буква отражает значение -87

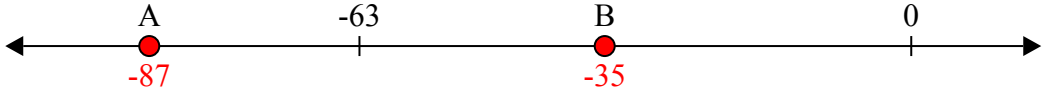

Ответы

1. **B**
2. **B**
3. **B**
4. **B**
5. **A**
6. **A**
7. **A**
8. **B**
9. **B**
10. **A**

1-10	90	80	70	60	50	40	30	20	10	0