Отрицательное положение на числовой прямой Имя:

Решите каждую задачу.

1) Какая буква отражает значение -37



2) Какая буква отражает значение -113



3) Какая буква отражает значение -97

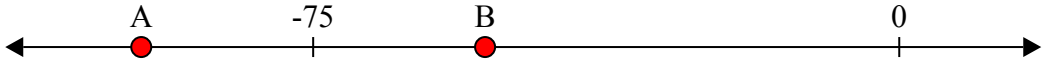

4) Какая буква отражает значение -80



5) Какая буква отражает значение -40



6) Какая буква отражает значение -101



7) Какая буква отражает значение -22



8) Какая буква отражает значение -105



9) Какая буква отражает значение -115



10) Какая буква отражает значение -97



Ответы

1. _____
2. _____
3. _____
4. _____
5. _____
6. _____
7. _____
8. _____
9. _____
10. _____

1-10	90	80	70	60	50	40	30	20	10	0

Отрицательное положение на числовой прямой Имя: Ключ к правильным ответам

Решите каждую задачу.

1) Какая буква отражает значение -37

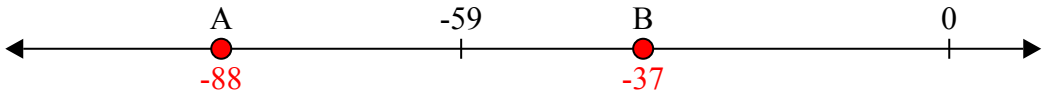

2) Какая буква отражает значение -113

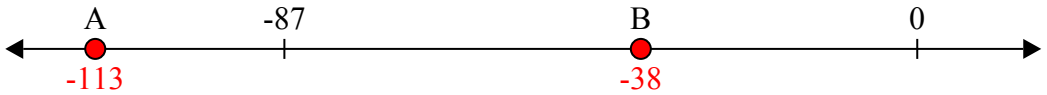

3) Какая буква отражает значение -97

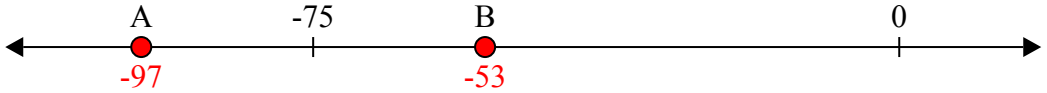

4) Какая буква отражает значение -80

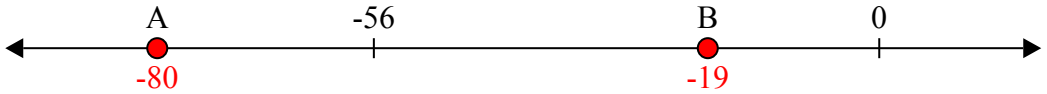

5) Какая буква отражает значение -40

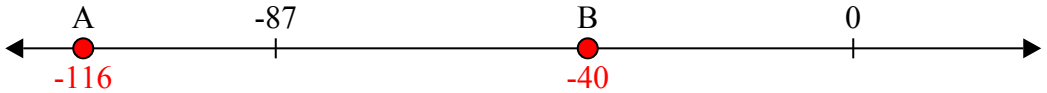

6) Какая буква отражает значение -101

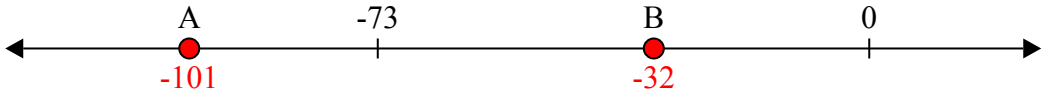

7) Какая буква отражает значение -22

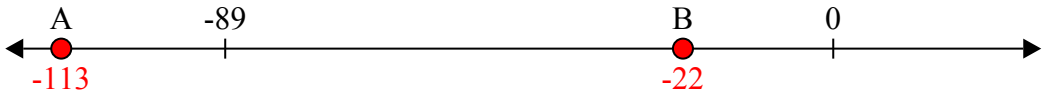

8) Какая буква отражает значение -105

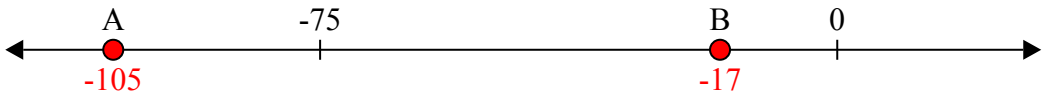

9) Какая буква отражает значение -115

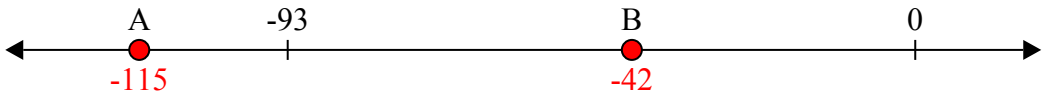

10) Какая буква отражает значение -97

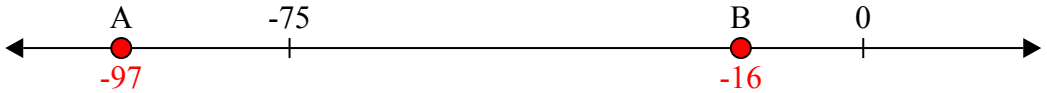

Ответы

1. B
2. A
3. A
4. A
5. B
6. A
7. B
8. A
9. A
10. A

1-10	90	80	70	60	50	40	30	20	10	0