Отрицательное положение на числовой прямой Имя:

Решите каждую задачу.

1) Какая буква отражает значение -98



2) Какая буква отражает значение -39



3) Какая буква отражает значение -20



4) Какая буква отражает значение -11



5) Какая буква отражает значение -105

6) Какая буква отражает значение -106

7) Какая буква отражает значение -12



8) Какая буква отражает значение -111



9) Какая буква отражает значение -12



10) Какая буква отражает значение -28



Ответы

1. _____
2. _____
3. _____
4. _____
5. _____
6. _____
7. _____
8. _____
9. _____
10. _____

1-10	90	80	70	60	50	40	30	20	10	0

Отрицательное положение на числовой прямой Имя: Ключ к правильным ответам

Решите каждую задачу.

1) Какая буква отражает значение -98

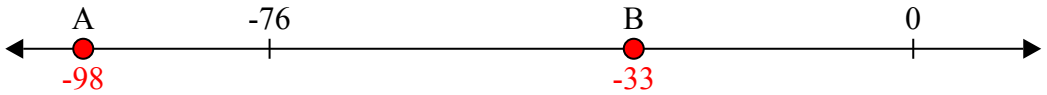

2) Какая буква отражает значение -39

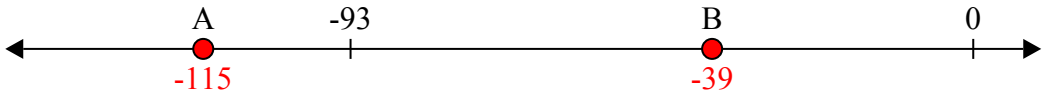

3) Какая буква отражает значение -20

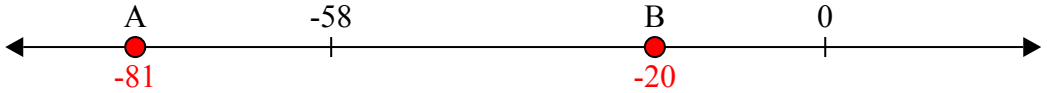

4) Какая буква отражает значение -11

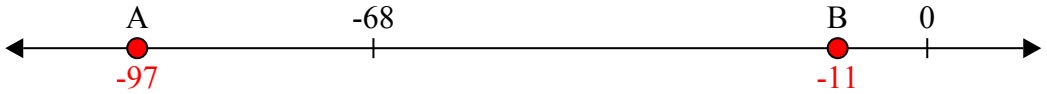

5) Какая буква отражает значение -105

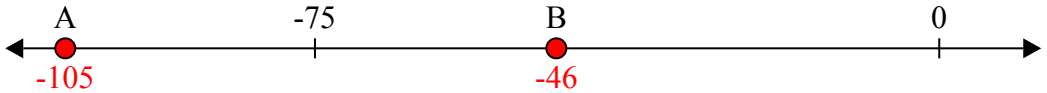

6) Какая буква отражает значение -106

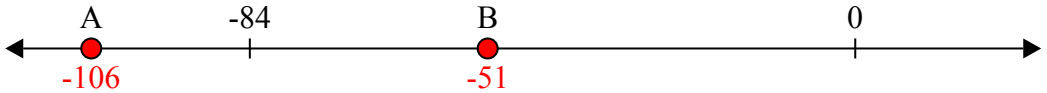

7) Какая буква отражает значение -12

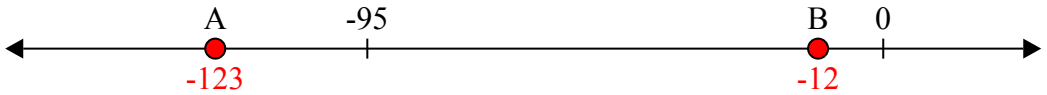

8) Какая буква отражает значение -111

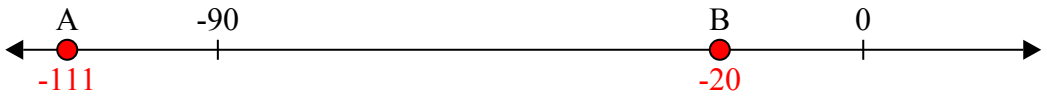

9) Какая буква отражает значение -12

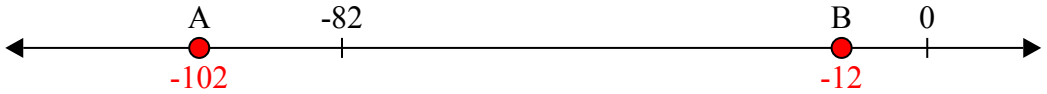

10) Какая буква отражает значение -28

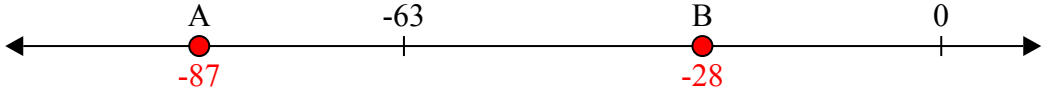

Ответы

1. A
2. B
3. B
4. B
5. A
6. A
7. B
8. A
9. B
10. B

1-10	90	80	70	60	50	40	30	20	10	0