Отрицательное положение на числовой прямой Имя:

Решите каждую задачу.

1) Какая буква отражает значение -32

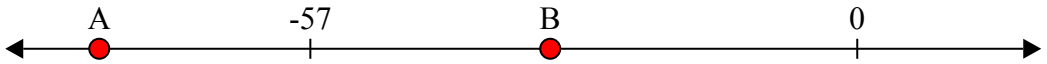

2) Какая буква отражает значение -114



3) Какая буква отражает значение -117



4) Какая буква отражает значение -111



5) Какая буква отражает значение -33



6) Какая буква отражает значение -29



7) Какая буква отражает значение -80

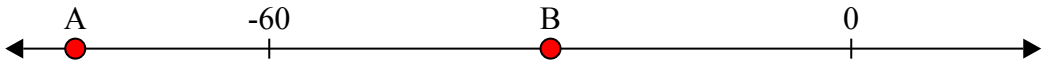

8) Какая буква отражает значение -86



9) Какая буква отражает значение -56

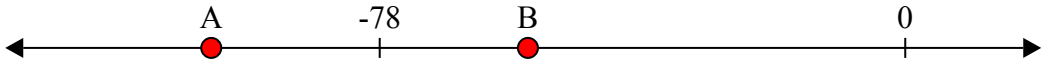

10) Какая буква отражает значение -24



Ответы

1. _____
2. _____
3. _____
4. _____
5. _____
6. _____
7. _____
8. _____
9. _____
10. _____

1-10	90	80	70	60	50	40	30	20	10	0

Отрицательное положение на числовой прямой Имя: Ключ к правильным ответам

Решите каждую задачу.

1) Какая буква отражает значение -32

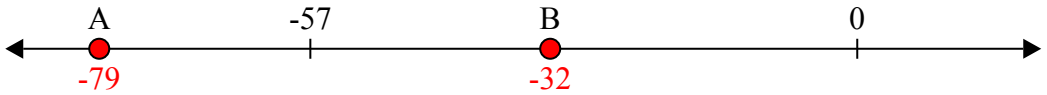

2) Какая буква отражает значение -114

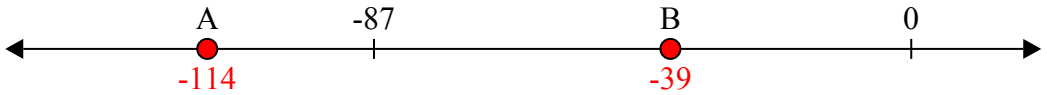

3) Какая буква отражает значение -117

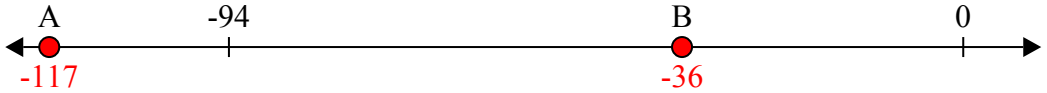

4) Какая буква отражает значение -111

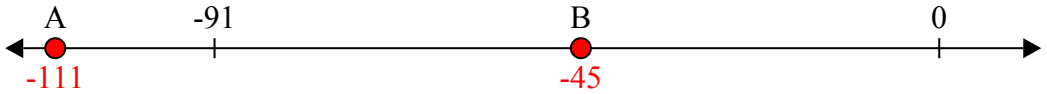

5) Какая буква отражает значение -33

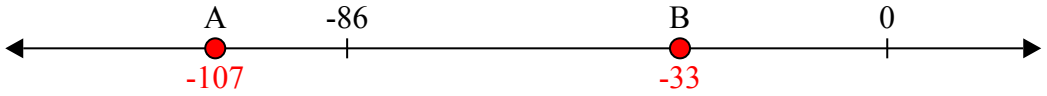

6) Какая буква отражает значение -29

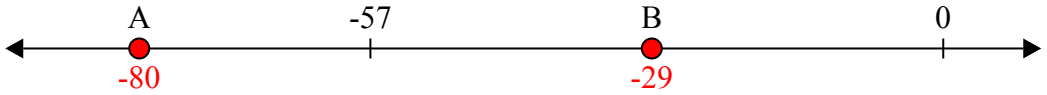

7) Какая буква отражает значение -80

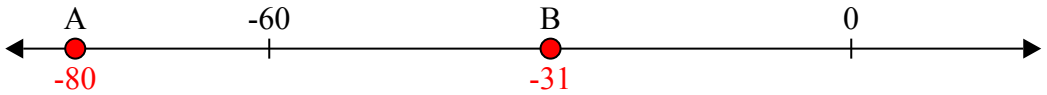

8) Какая буква отражает значение -86

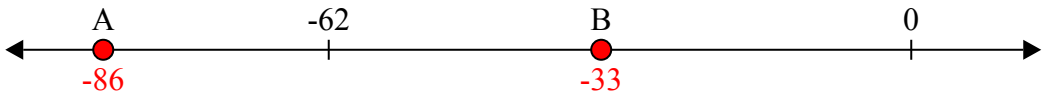

9) Какая буква отражает значение -56

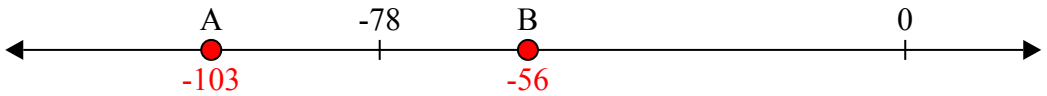

10) Какая буква отражает значение -24

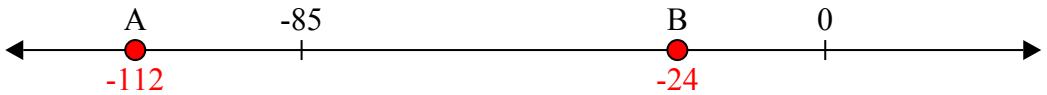

Ответы

1. B
2. A
3. A
4. A
5. B
6. B
7. A
8. A
9. B
10. B

1-10	90	80	70	60	50	40	30	20	10	0