Округление по числовым прямым Имя:

Обозначьте местоположение (приблизительное) на числовой прямой при решении.

1) Округлите 14 905 до ближайших сотых.

2) Округлите 680 180 до ближайших ста тысячных.

3) Округлите 992 162 до ближайших ста тысячных.

4) Округлите 48 422 834 до ближайших ста тысячных.

5) Округлите 729 327 до ближайших тысячных.

6) Округлите 42 660 до ближайших тысячных.

7) Округлите 72 083 942 до ближайших ста тысячных.

8) Округлите 361 до ближайших сотых.

9) Округлите 79 043 до ближайших десяти тысячных.

10) Округлите 344 до ближайших сотых.

11) Округлите 1 179 до ближайших тысячных.

12) Округлите 359 639 до ближайших сотых.

Ответы

1. _____
2. _____
3. _____
4. _____
5. _____
6. _____
7. _____
8. _____
9. _____
10. _____
11. _____
12. _____

1-10	92	83	75	67	58	50	42	33	25	17
11-12	8	0								

Округление по числовым прямым Имя: Ключ к правильным ответам

Обозначьте местоположение (приблизительное) на числовой прямой при решении.

1) Округлите 14 905 до ближайших сотых.

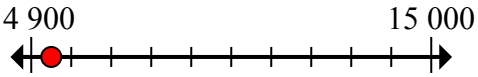

2) Округлите 680 180 до ближайших ста тысячных.

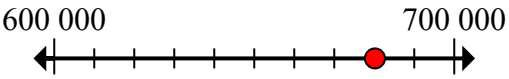

3) Округлите 992 162 до ближайших ста тысячных.

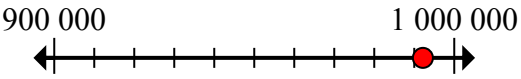

4) Округлите 48 422 834 до ближайших ста тысячных.

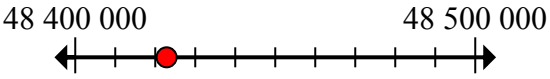

5) Округлите 729 327 до ближайших тысячных.

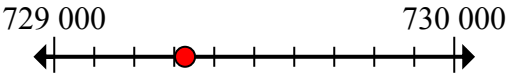

6) Округлите 42 660 до ближайших тысячных.

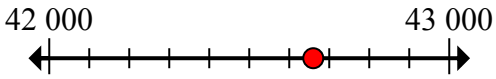

7) Округлите 72 083 942 до ближайших ста тысячных.

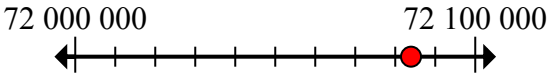

8) Округлите 361 до ближайших сотых.

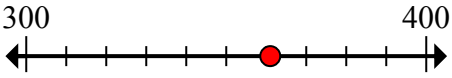

9) Округлите 79 043 до ближайших десяти тысячных.

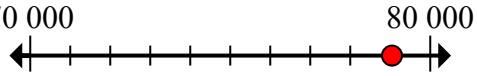

10) Округлите 344 до ближайших сотых.

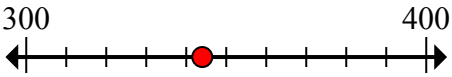

11) Округлите 1 179 до ближайших тысячных.

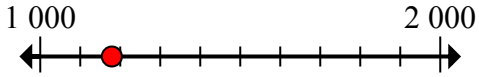

12) Округлите 359 639 до ближайших сотых.

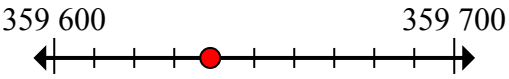

Ответы

1. 14 900
2. 700 000
3. 1 000 000
4. 48 400 000
5. 729 000
6. 43 000
7. 72 100 000
8. 400
9. 80 000
10. 300
11. 1 000
12. 359 600

1-10	92	83	75	67	58	50	42	33	25	17
11-12	8	0								

Округление по числовым прямым Имя:

Обозначьте местоположение (приблизительное) на числовой прямой при решении.

1 000	1 000 000	43 000	700 000
729 000	72 100 000	359 600	300
14 900	48 400 000	400	80 000

1) Округлите 14 905 до ближайших сотых.

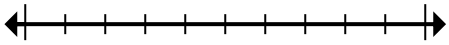

2) Округлите 680 180 до ближайших ста тысячных.

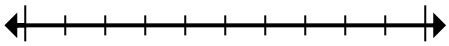

3) Округлите 992 162 до ближайших ста тысячных.

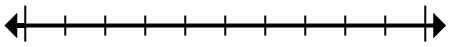

4) Округлите 48 422 834 до ближайших ста тысячных.

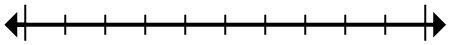

5) Округлите 729 327 до ближайших тысячных.

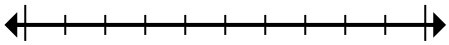

6) Округлите 42 660 до ближайших тысячных.

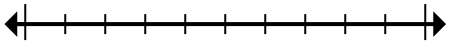

7) Округлите 72 083 942 до ближайших ста тысячных.

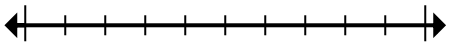

8) Округлите 361 до ближайших сотых.

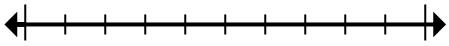

9) Округлите 79 043 до ближайших десяти тысячных.

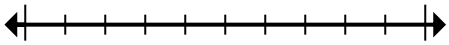

10) Округлите 344 до ближайших сотых.

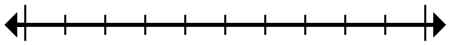

11) Округлите 1 179 до ближайших тысячных.

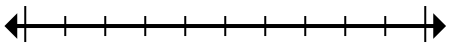

12) Округлите 359 639 до ближайших сотых.

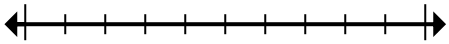

Ответы

1. _____
2. _____
3. _____
4. _____
5. _____
6. _____
7. _____
8. _____
9. _____
10. _____
11. _____
12. _____

1-10	92	83	75	67	58	50	42	33	25	17
11-12	8	0								