Определение группы 100

Имя:

Используйте группы при ответе на вопрос.

1) a. Сколько здесь групп 100?

b.Сколько всего малых блоков?

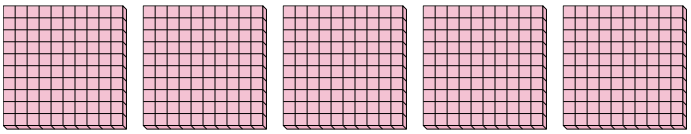

2) a. Сколько здесь групп 100?

b.Сколько всего малых блоков?



3) a. Сколько здесь групп 100?

b.Сколько всего малых блоков?

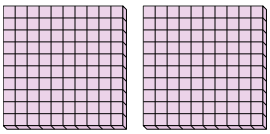

4) a. Сколько здесь групп 100?

b.Сколько всего малых блоков?

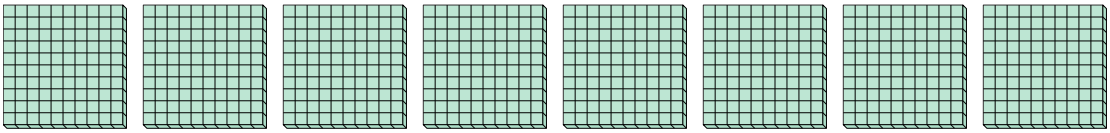

5) a. Сколько здесь групп 100?

b.Сколько всего малых блоков?

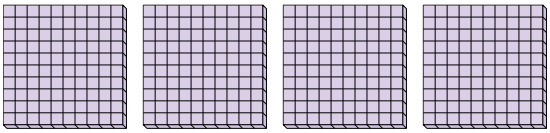

6) a. Сколько здесь групп 100?

b.Сколько всего малых блоков?



7) a. Сколько здесь групп 100?

b.Сколько всего малых блоков?

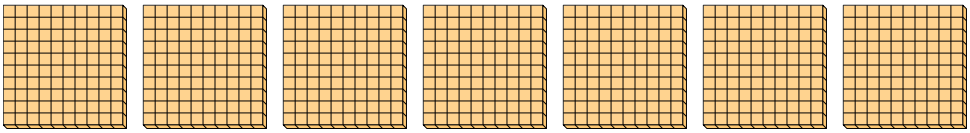

Ответы

1. ____ ____
2. ____ ____
3. ____ ____
4. ____ ____
5. ____ ____
6. ____ ____
7. ____ ____

1-7	86	71	57	43	29	14	0

Определение группы 100

Имя: **Ключ к правильным ответам**

Используйте группы при ответе на вопрос.

1) a. Сколько здесь групп 100?
b.Сколько всего малых блоков?

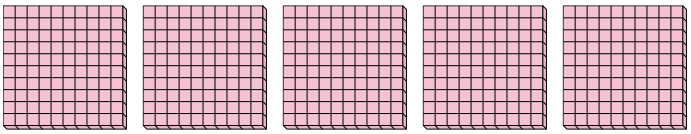

2) a. Сколько здесь групп 100?
b.Сколько всего малых блоков?



3) a. Сколько здесь групп 100?
b.Сколько всего малых блоков?

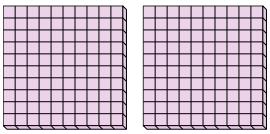

4) a. Сколько здесь групп 100?
b.Сколько всего малых блоков?

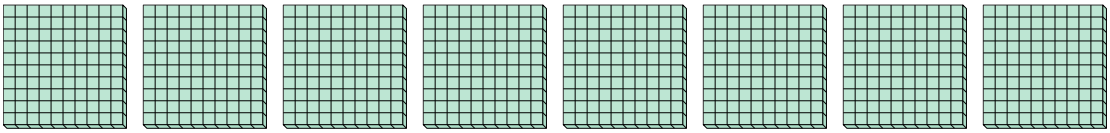

5) a. Сколько здесь групп 100?
b.Сколько всего малых блоков?

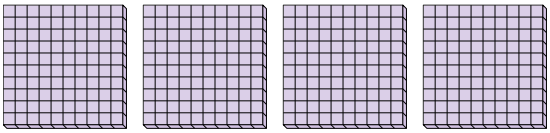

6) a. Сколько здесь групп 100?
b.Сколько всего малых блоков?



7) a. Сколько здесь групп 100?
b.Сколько всего малых блоков?

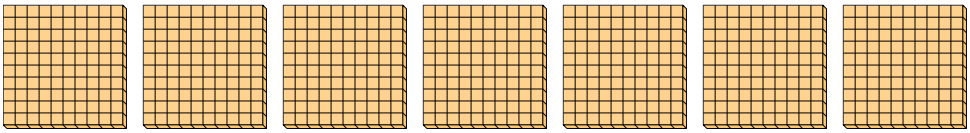

Ответы

1. **5** **500**
2. **1** **100**
3. **2** **200**
4. **8** **800**
5. **4** **400**
6. **3** **300**
7. **7** **700**

1-7	86	71	57	43	29	14	0