Визуальный вес разряда (в пределах 20) Имя:

Заполните пропуски.

об)

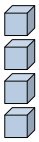

0 десятками 4 единицами

1)

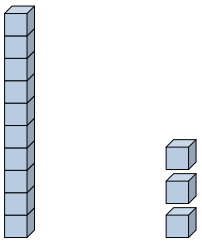

____ десятками ____ единицами

2)

____ десятками ____ единицами

3)

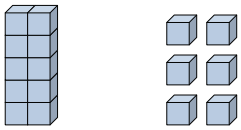

____ десятками ____ единицами

4)

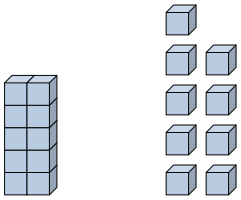

____ десятками ____ единицами

5)

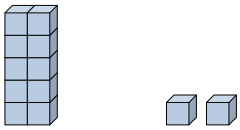

____ десятками ____ единицами

6)

____ десятками ____ единицами

7)

____ десятками ____ единицами

8)

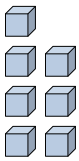

____ десятками ____ единицами

9)

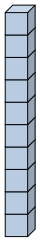

____ десятками ____ единицами

10)

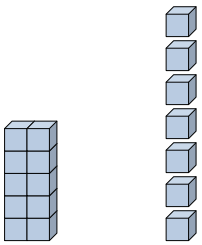

____ десятками ____ единицами

11)

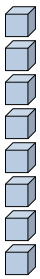

____ десятками ____ единицами

Ответы

об. 4

1. ____
2. ____
3. ____
4. ____
5. ____
6. ____
7. ____
8. ____
9. ____
10. ____
11. ____

1-10	91	82	73	64	55	45	36	27	18	9
11	0									

Визуальный вес разряда (в пределах 20) Имя: Ключ к правильным ответам

Заполните пропуски.

об)

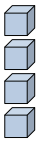

0 десятками 4 единицами

1)

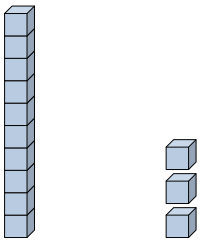

1 десятками 3 единицами

2)

0 десятками 5 единицами

3)

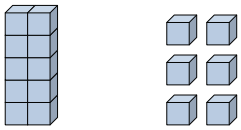

1 десятками 6 единицами

4)

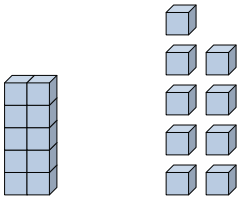

1 десятками 9 единицами

5)

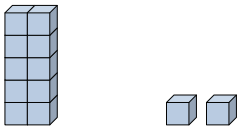

1 десятками 2 единицами

6)

0 десятками 2 единицами

7)

0 десятками 9 единицами

8)

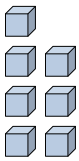

0 десятками 7 единицами

9)

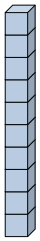

1 десятками 0 единицами

10)

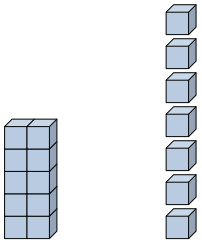

1 десятками 7 единицами

11)

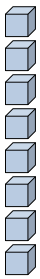

0 десятками 8 единицами

Ответы

об.	4
1.	13
2.	5
3.	16
4.	19
5.	12
6.	2
7.	9
8.	7
9.	10
10.	17
11.	8

1-10	91	82	73	64	55	45	36	27	18	9
11	0									